Plak hier je sticker

Naam: _____

Datum: _____

VOORBEELD
niet gebruiken

Dag 1: Het plan in het zand

1 Tel de draagstenen bij tekening 3. Hoeveel zijn het er?

_____

2 Het hunebed wordt langer. Hoeveel draagstenen heeft een hunebed met 4 dekstenen?

_____

3 Oma droomt van een groot hunebed met 9 dekstenen. Hoeveel draagstenen heeft het?

_____

4 Hoeveel draagstenen heeft een hunebed met 10 dekstenen echt?

_____

5 Leg aan Tor uit waarom het geen 40 draagstenen zijn.

_____

_____

_____

6 Hoeveel draagstenen heeft Lumi gevonden?

_____

VOORBEELD
niet gebruiken

7 Oma wil een hunebed met 5 dekstenen. Hoeveel van Lumi's draagstenen blijven er dan over?

_____

8 Het grootste hunebed van de streek heeft 16 draagstenen. Hoeveel dekstenen heeft het?

_____

9 Wat is het oudst?

(A) (B) (C)

Terugblik op dit deel: kleur bij elke vraag één rondje in

Hoe moeilijk vond je dit deel?	Hoe leuk vond je het?	Hoeveel hulp had je nodig?
(1) (2) (3) (4) (5)	(1) (2) (3) (4) (5)	(1) (2) (3) (4) (5)
te makkelijk — precies goed — te moeilijk	niet leuk — heel leuk	geen — veel

Wat wil je er nog over vertellen? _____

Dag 2: Hoe zwaar is een kei?

10 Op wip 1 zit Tor tegenover 5 vuistkeien. Die zijn even zwaar. Hoeveel kilo weegt één vuistkei?

_____ kilo

11 Op wip 2 zitten Oma, Tor en Lumi tegenover één grote kei, de zitkei. Hoeveel kilo weegt de zitkei?

_____ kilo

VOORBEELD
niet gebruiken

12 Hoeveel kinderen uit jouw klas wegen samen ongeveer evenveel als de zitkei?
Zo heb ik geschat:

Mijn schatting: _____ kinderen

13 Hoeveel zitkeien passen er in de grote kei?

_____

14 Hoeveel kilo weegt de grote kei?

_____ kilo

15 Hoeveel trekkers zijn er ongeveer nodig voor deze deksteen?
Zo heb ik geschat:

Mijn schatting: _____ trekkers

Terugblik op dit deel: kleur bij elke vraag één rondje in

Hoe moeilijk vond je dit deel?
1 2 3 4 5
te makkelijk — precies goed — te moeilijk

Hoe leuk vond je het?
1 2 3 4 5
niet leuk — heel leuk

Hoeveel hulp had je nodig?
1 2 3 4 5
geen — veel

Wat wil je er nog over vertellen? _____

VOORBEELD
niet gebruiken

Dag 3: Op weg met de keien

16 Wie draagt wat, en wie loopt waar in de rij? Vul het rooster in.
Klopt het? Kleur het hokje in. Klopt het niet? Zet er een kruisje in.

		Draagt			**Plek**		
		touw	rollen	water	voorop	midden	achteraan
Wie	Oma						
	Tor						
	Lumi						
Plek	voorop						
	midden						
	achteraan						

17 Hoeveel kilo weegt de kei met de 6 erop?

_____ kilo

18 Hoeveel trekkers zijn er nodig voor de twee zwaarste keien samen?

_____

19 Verdeel de zes keien over de drie sleeën. Schrijf bij elke slee welke twee keien erop gaan.

Slee	**Kei**	**Kei**	**Samen**
1			
2			
3			

20 Welke kei gaat samen met de kei van 3 op de slee?

_____

VOORBEELD
niet gebruiken

21 Hoeveel trekkers trekken er samen aan de drie sleeën?

_____ trekkers

Terugblik op dit deel: kleur bij elke vraag één rondje in

Hoe moeilijk vond je dit deel?	Hoe leuk vond je het?	Hoeveel hulp had je nodig?
1 2 3 4 5	1 2 3 4 5	1 2 3 4 5
te makkelijk · precies goed · te moeilijk	niet leuk · heel leuk	geen · veel

Wat wil je er nog over vertellen? _____

Dag 4: De muur tussen de stenen

22 Je weet de bovenste steen al. Welke getallen ontbreken?

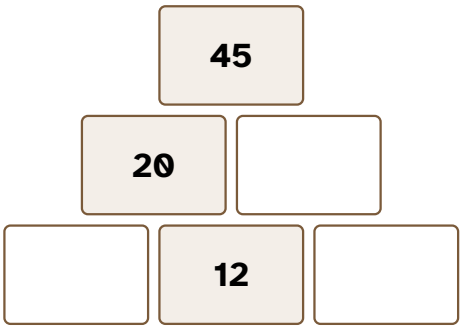

23 Vind het getal voor de middelste steen onderaan. Vul daarna de hele muur in.

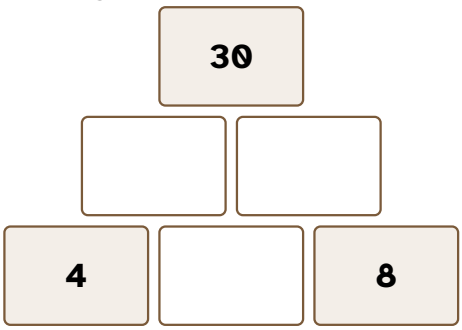

VOORBEELD
niet gebruiken

24 Vul de hoge muur in.

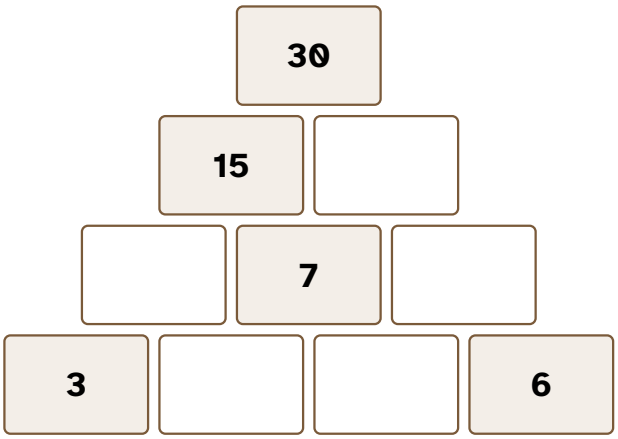

25 Leg 1, 2 en 3 onderaan, in de volgorde die jij wilt. Wat is de grootste top die je kunt maken?

_____

26 Welke steen moet in het midden liggen voor de grootste top?

(A) (B) (C)

27 Waarom moet de grootste steen in het midden? Leg het uit.

_____

_____

_____

Terugblik op dit deel: kleur bij elke vraag één rondje in

Hoe moeilijk vond je dit deel?	Hoe leuk vond je het?	Hoeveel hulp had je nodig?
(1) (2) (3) (4) (5)	(1) (2) (3) (4) (5)	(1) (2) (3) (4) (5)
te makkelijk — precies goed — te moeilijk	niet leuk — heel leuk	geen — veel

Wat wil je er nog over vertellen? _____

Dag 5: Potten voor het hunebed

28 Wat staat er op plek 19?

(A) (B)

VOORBEELD
niet gebruiken

29 Hoeveel stippen staan er op de eerste 20 plekken?

_____

30 Heeft Tor gelijk?

A B

31 Op welke plek staat er voor het eerst een stip op allebei de banden?

_____

32 Op hoeveel plekken van 1 tot en met 30 staat er op allebei de banden een stip?

_____

33 Wat staat er op plek 23?

A B C

34 Teken een pot met een eigen patroon dat steeds terugkomt. Schrijf erbij wat er op plek 20 staat.

Terugblik op dit deel: kleur bij elke vraag één rondje in

Hoe moeilijk vond je dit deel?

1 2 3 4 5

te makkelijk — precies goed — te moeilijk

Hoe leuk vond je het?

1 2 3 4 5

niet leuk — heel leuk

Hoeveel hulp had je nodig?

1 2 3 4 5

geen — veel

Wat wil je er nog over vertellen? _____